ESTÂNCIA TURÍSTICA DE RIBEIRÃO PIRES
CONSTRUINDO O FUTURO DA GENTE

Secretaria de Educação
Avenida Prefeito Valdirio Prisco, 193
Jardim Itacolomy
sec@ribeiraopires.sp.gov.br
(11) 4828-9600/ 4825-9270

| ESCOLA MUNICIPAL PROFESSORA LAVÍNIA DE FIGUEIREDO ARNONI | | |
|---|---|---|
| Nome do aluno: | Data:<br>31 de Agosto | Semana: 22 |
| Professora:<br>Mônica Martins / Carolina T. Merino | Turma:<br>1ºANO A/B | Entrega: até 7/09/2021<br>via Google Classroom |
| Componente curricular: Língua Portuguesa | | |

ALFABETO DOBRADURA

VAMOS OBSERVAR COM ATENÇÃO O TEXTO INSTRUCIONAL DA DOBRADURA DA AVE ?

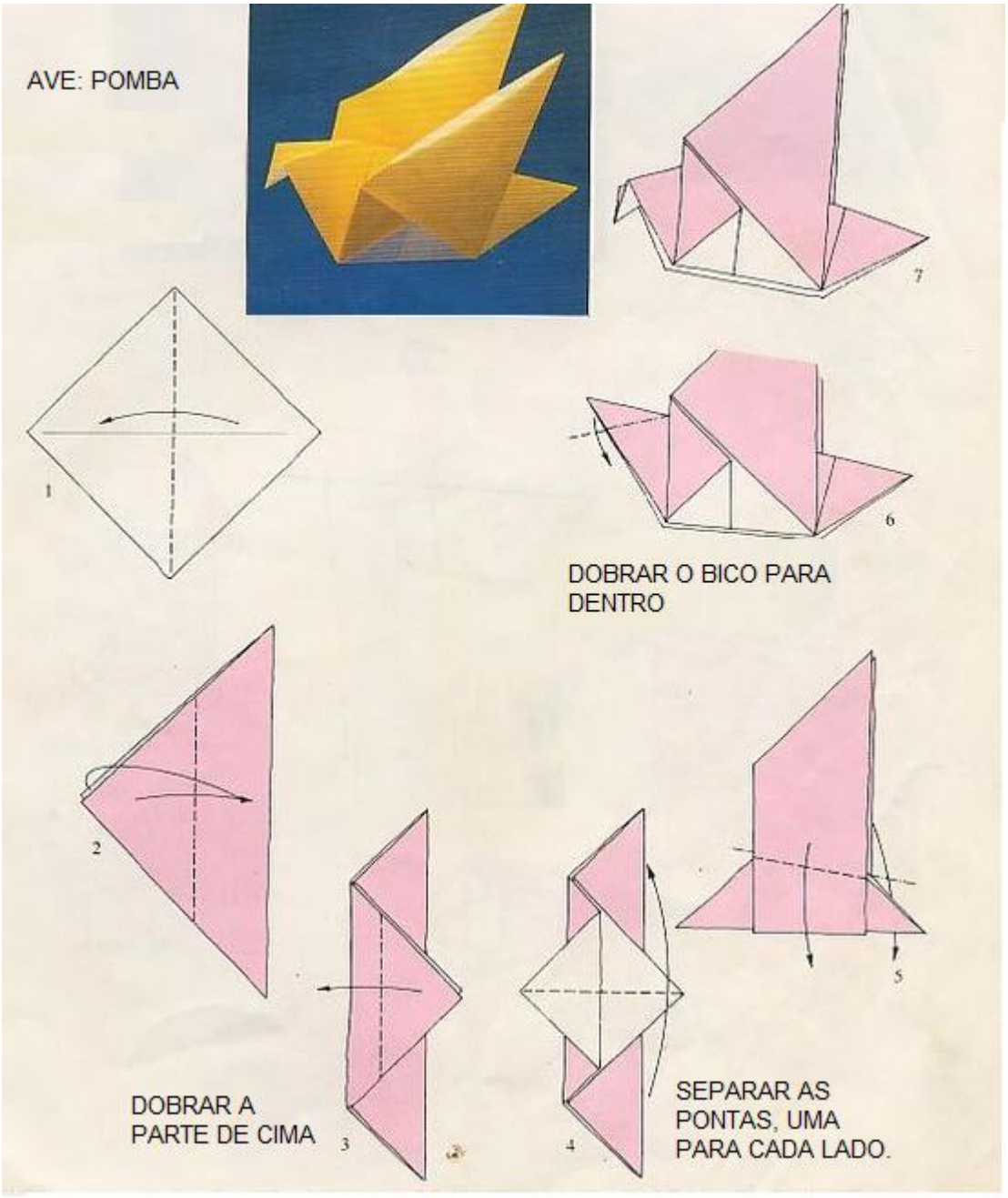

Secretaria de Educação
Avenida Prefeito Valdirio Prisco, 193
Jardim Itacolomy
sec@ribeiraopires.sp.gov.br
(11) 4828-9600/ 4825-9270

1- NO CADERNO, COLE A AVE FEITA, FAÇA UM DESENHO BEM BONITO AO REDOR E REGISTRE O TRAVA-LÍNGUA A SEGUIR.

VOAR VOAR

O VOO DA AVE LEVOU

O VÉU DA VELHA VOVÓ.

2- A PROFESSORA BAGUNÇOU TODAS AS PALAVRAS DO TRAVA-LÍNGUA! RECORTE AS PALAVRAS E FORME O TRAVA-LÍNGUA CORRETAMENTE NO SEU CADERNO.

| | | | | |
|---|---|---|---|---|
| VOVÓ | VOAR | | | |
| VOO | DA | LEVOU | VÉU | VELHA |
| VOAR | O | AVE | O | DA |

3 – VOCÊ CONHECE NOME DE AVES? ESCREVA ABAIXO O NOME DE 5 AVES QUE VOCÊ JÁ VIU EM ALGUM LUGAR.

_____

_____

_____

_____

_____

ESTÂNCIA TURÍSTICA DE RIBEIRÃO PIRES
CONSTRUINDO O FUTURO DA GENTE

Secretaria de Educação
Avenida Prefeito Valdirio Prisco, 193
Jardim Itacolomy
sec@ribeiraopires.sp.gov.br
(11) 4828-9600/ 4825-9270

| ESCOLA MUNICIPAL PROFESSORA LAVÍNIA DE FIGUEIREDO ARNONI | | |
|---|---|---|
| Nome do aluno: | Data:<br>31 de Agosto | Semana: 24 |
| Professora:<br>Mônica Martins / Carolina T. Merino | Turma:<br>1ºANO A/B | Entrega: até 07/09/2021<br>via Google Classroom |
| Componente curricular: Matemática | | |

ONTEM CONHECEMOS O NOME E CARACTERÍSTICAS DE ALGUNS SÓLIDOS GEOMÉTRICOS. OBSERVE O QUE DONA VANESSA ESTÁ FAZENDO COM AS EMBALAGENS.




1- QUAL O NOME DO SÓLIDO GEOMÉTRIDO QUE ELA USOU PARA DESENHAR:

A) A FIGURA 1?_____

B) A FIGURA 2?_____

C) A FIGURA 3?_____

2- QUAL O NOME DAS FORMAS GEOMÉTRICAS ABAIXO? ESCREVA SEM AJUDA DE UM ADULTO.

| | | |
|---|---|---|
| | |  |
| | | |