ESTÂNCIA TURÍSTICA DE RIBEIRÃO PIRES
CONSTRUINDO O FUTURO DA GENTE

Secretaria de Educação
Avenida Prefeito Valdirio Prisco, 193
Jardim Itacolomy
sec@ribeiraopires.sp.gov.br
(11) 4828-9600/ 4825-9270

ESCOLA MUNICIPAL ENGENHEIRO CARLOS ROHM I		
Nome do aluno:	**Data: 26/05/2021**	**Semana: 12**
Professor: Eliane, Marina, Andréia I e Andréia F	**Turma: 3.º Anos: A,B,C e D**	
Componentes Curriculares: Matemática	Entregar: **Via E-mail até dia 27/05/21**	

Matemática

A Lebre não se conformou com a vitória da Tartaruga...

1. No dia seguinte, a Lebre chamou a Tartaruga para outro desafio: um torneio de tiro ao alvo. A Tartaruga aceitou. Veja como ficou o placar:

ALVO DA LEBRE



ALVO DA TARTARUGA



A- Quantos pontos fez a Lebre? _____
Escreva por extenso:
_____

B- Quantos pontos fez a Tartaruga?____
Escreva por extenso:
_____

C- Quem venceu? _____

E não é que os bichos da floresta aderiram ao torneio? Organizaram uma grande competição de tiro ao alvo.

2. No final da competição, o resultado ficou assim:

Animal	Pontos	Animal	Pontos	Animal	Pontos
Tucano	82	Macaco	102	Coruja	115
Cutia	51	Onça	97	Gambá	123

A- Qual foi a posição dos animais no torneio? Preencha as lacunas.

1º lugar	2º lugar	3º lugar	4º lugar	5º lugar	6º lugar

B- Quem venceu? _____
Escreva sua pontuação por extenso: _____

C- Qual foi a pontuação da coruja? _____
Quantas dezenas cabem nessa quantidade de pontos? _____

D- Quem fez exatamente o dobro de pontos do último colocado? _____

E- Quantos pontos os três primeiros colocados fizeram juntos? _____
E os três últimos colocados (juntos)? _____

F- Qual foi a diferença de pontos entre o 1º colocado e o 6º? _____

G- Quantos pontos o gambá fez a mais do que o tucano? _____

3- Complete a série.

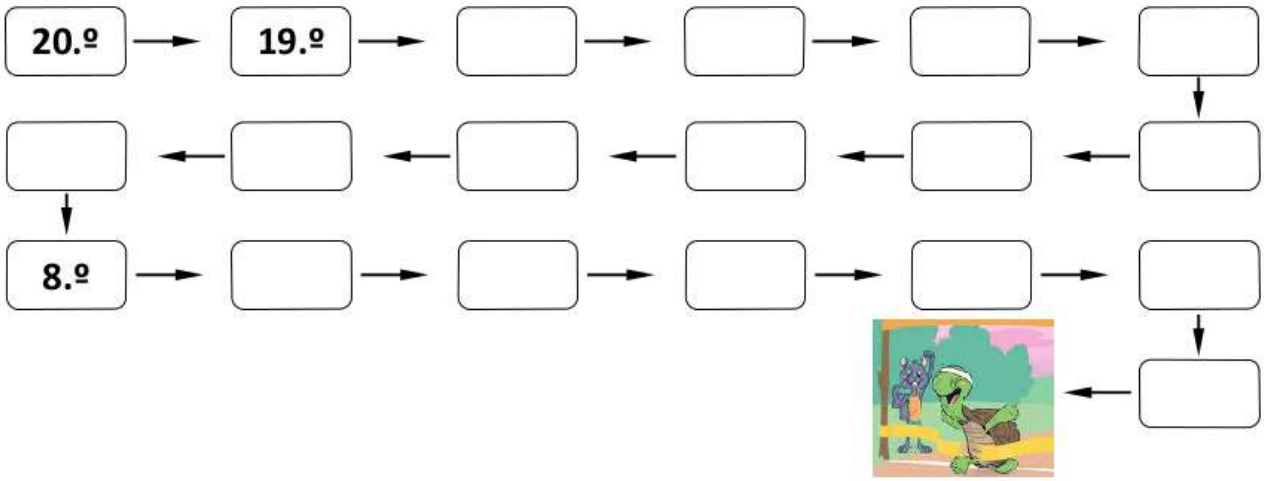

4- Escreva o numeral ordinal que vem a seguir, de acordo com o exemplo.

17.º → 18.º	9.º →	15.º →
8.º →	4.º →	2.º →
14.º →	18.º →	12.º →
6.º →	11.º →	5.º →

5- A tartaruga gostou tanto da corrida que começou a competir em várias corridas pela sua cidade. Observe a imagem e responda.

O vencedor da corrida está no centro do pódio.
Ele foi o _____ a terminar a corrida.
À sua direita está o que ficou em _____ lugar e à sua esquerda o que ficou em _____lugar.

BOA AULA!