ESTÂNCIA TURÍSTICA DE RIBEIRÃO PIRES
CONSTRUINDO O FUTURO DA GENTE

Secretaria de Educação
Avenida Prefeito Valdirio Prisco, 193
Jardim Itacolomy
sec@ribeiraopires.sp.gov.br
(11) 4828-9600/ 4825-9270

ESCOLA MUNICIPAL COMENDADOR ABDALLA CHIEDDE		
Nome do aluno:		**SEMANA 11** **17 À 21/05/2021**
Professor: CRISTINA	**Data:** **17/05/2021** **SEGUNDA-FEIRA**	**Turma: 4ºA**
Componente Curricular: **Matemática/Língua Portuguesa-** **ATIVIDADE ADAPTADA**	**Entrega: foto via zap**	

LEITURA DA SEMANA

PNLD – LIVRO DE LÍNGUA PORTUGUESA

- p. 138 - COMO O POMBO-CORREIO SABE PARA ONDE ELE DEVE LEVAR A MENSAGEM?
- p. 139 – MUITO ANTES DO CELULAR,
- p. 140 – TAMBORES AFRICANOS

SENHORES RESPONSÁVEIS, INCENTIVEM O MOMENTO DA LEITURA, AQUI O ALUNO APRENDERÁ COMPORTAMENTO LEITOR

ATIVIDADE 1 – LÍNGUA PORTUGUESA ATIVIDADE 1

NA AULA PASSADA VOCÊ OBSERVOU ALGUMAS PINTURAS NAS QUAIS APRESENTAVAM VÁRIAS BRINCADEIRAS. ESCOLHA UMA BRINCADEIRA QUE VOCÊ CONHEÇA E PREENCHA A FICHA ABAIXO (FAÇA NO SEU CADERNO DE CLASSE)

FICHA DA BRINCADEIRA
TÍTULO:
QUEM TE ENSINOU A BRINCAR
NÚMERO DE PARTICIPANTES
MATERIAL NECESSÁRIO PARA BRINCAR:

ESTÂNCIA TURÍSTICA DE RIBEIRÃO PIRES
CONSTRUINDO O FUTURO DA GENTE

Secretaria de Educação
Avenida Prefeito Valdirio Prisco, 193
Jardim Itacolomy
sec@ribeiraopires.sp.gov.br
(11) 4828-9600/ 4825-9270

ATIVIDADE DE MATEMÁTICA

REGISTRE SEUS CÁLCULOS NO SEU CADERNO DE CLASSE

RESOLVA OS PROBLEMAS:

1. RODRIGO AJUDOU NA BARRACA DA REGIÃO CENTRO-OESTE. FORAM VENDIDAS 42 COXINHAS E 35 EMPADINHAS. QUAL FOI O TOTAL DE SALGADOS VENDIDOS?

2. NA APRESENTAÇÃO DE DANÇAS, PAOLA E ÉRICA USARAM ROUPAS COM FITAS. A DE PAOLA TINHA 36 FITAS E A DE ÉRICA, 31. QUAL ROUPA TINHA MAIS FITAS? QUANTAS FITAS A MAIS?

ESTÂNCIA TURÍSTICA DE RIBEIRÃO PIRES
CONSTRUINDO O FUTURO DA GENTE

Secretaria de Educação
Avenida Prefeito Valdirio Prisco, 193
Jardim Itacolomy
sec@ribeiraopires.sp.gov.br
(11) 4828-9600/ 4825-9270

ESCOLA MUNICIPAL COMENDADOR ABDALLA CHIEDDE		
Nome do aluno:		**SEMANA 11** **17 á 21/05/2021**
Professor: CRISTINA	**Data:** **18/05/2021** **TERÇA-FEIRA**	**Turma: 4ºA**
Componente Curricular: **ROTINA ADAPTADA** **Matemática/Língua Portuguesa**	**Entrega: foto via zap**	

ATIVIDADE DE LÍNGUA PORTUGUESA

ESCREVA UM BILHETE CONVIDANDO SEU AMIGO PARA BRINCAR COM VOCÊ.

LEMBRE-SE QUE O BILHETE DEVE SEGUIR UMA ORDEM:

- **1º - PARA QUEM VAI O BILHETE – DESTINATÁRIO**
- **2º - ASSUNTO**
- **3º - NO ASSUNTO DEVE CONSTAR, DATA DO ENCONTRO, LOCAL E HORA**
- **4º - DESPEDIDA**
- **5º - SEU NOME**



ESTÂNCIA TURÍSTICA DE RIBEIRÃO PIRES
CONSTRUINDO O FUTURO DA GENTE

Secretaria de Educação
Avenida Prefeito Valdirio Prisco, 193
Jardim Itacolomy
sec@ribeiraopires.sp.gov.br
(11) 4828-9600/ 4825-9270

ATIVIDADE DE MATEMÁTICA

O TEMPO

BIMESTRE

OBSERVE O ESQUEMA APRESENTADO ABAIXO:

SABENDO QUE DOIS MESES FORMAM UM BIMESTRE, RESPONDA ÀS QUESTÕES:

A. QUAL FOI O PRIMEIRO BIMESTRE DO ANO?

B. QUANTOS BIMESTRES HÁ EM UM ANO?

C. QUANTOS DIAS HÁ NO BIMESTRE FORMADO PELOS MESES DE JULHO E AGOSTO?

ESTÂNCIA TURÍSTICA DE RIBEIRÃO PIRES
CONSTRUINDO O FUTURO DA GENTE

Secretaria de Educação
Avenida Prefeito Valdirio Prisco, 193
Jardim Itacolomy
sec@ribeiraopires.sp.gov.br
(11) 4828-9600/ 4825-9270

ESCOLA MUNICIPAL COMENDADOR ABDALLA CHIEDDE		
Nome do aluno:		**SEMANA 11** **17 À 21/05/2021**
Professor: CRISTINA	**Data:** **19/05/2021** **QUARTA-FEIRA**	**Turma: 4ºA**
Componente Curricular: **ROTINA ADAPTADA** **Matemática/Língua Portuguesa**	**Entrega: foto via zap**	

ATIVIDADE 1

LEGENDA

OBSERVE AS FOTOGRAFIAS E LEIA AS LEGENDAS FEITAS PARA ELAS:

©Tiago Moreira dos Santos

CRIANÇAS MUNDURUKU BRINCAM NA CANOA

©Camila Gaudiano/Studio R

MULHER XAVANTE – ALDEIA WEDERÃ, MT

AGORA É A SUA VEZ, CRIE UMA LEGENDA PARA A FOTO ABAIXO

©Rosa Gaudiano/Studio R

ATIVIDADE 2 – MATEMÁTICA

LEIA COM ATENÇÃO E RESOLVA AS QUESTÕES:

1. NA FIGURA ESTÃO DESENHADOS SKATES E PATINETES.

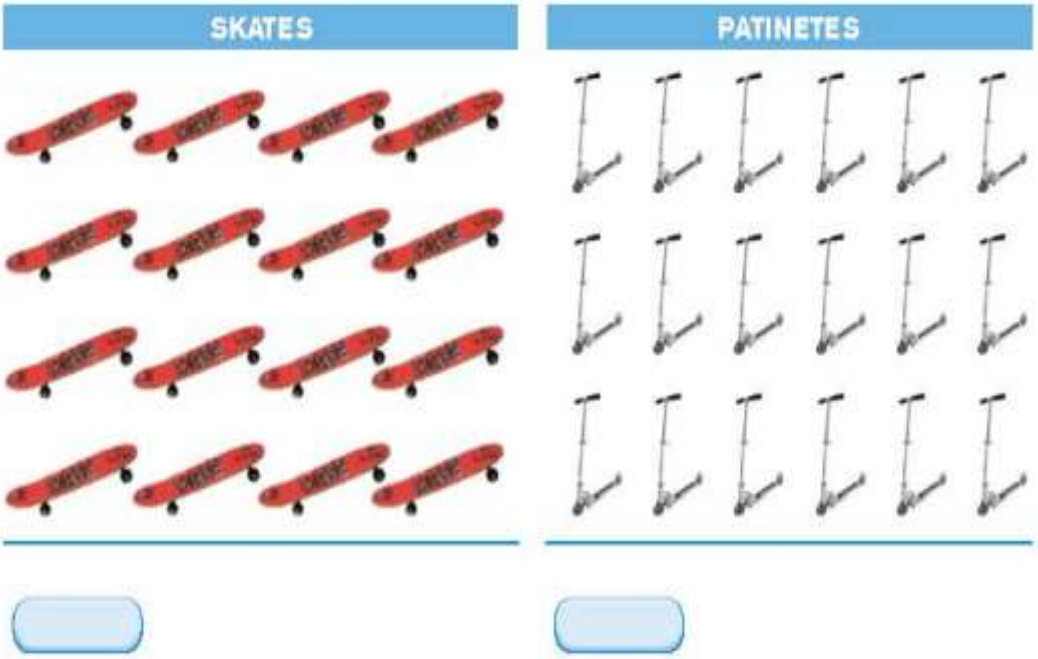

A. O QUE TEM MAIS, SKATES OU PATINETES? FAÇA UM X NO QUADRINHO PARA INDICAR ONDE TEM MAIS.

B. QUANTOS TEM A MAIS? ESCREVA A RESPOSTA NO QUADRINHO ABAIXO.

2. ONTEM, PAULO TINHA 18 REAIS. HOJE ELE GANHOU 5 REAIS. QUANTOS REAIS PAULO TEM AGORA? ESCREVA A RESPOSTA NO QUADRINHO ABAIXO.

ESTÂNCIA TURÍSTICA DE RIBEIRÃO PIRES
CONSTRUINDO O FUTURO DA GENTE

Secretaria de Educação
Avenida Prefeito Valdirio Prisco, 193
Jardim Itacolomy
sec@ribeiraopires.sp.gov.br
(11) 4828-9600/ 4825-9270

ESCOLA MUNICIPAL COMENDADOR ABDALLA CHIEDDE		
Nome do aluno:		**SEMANA 11** **17 À 21/2021**
Professor: CRISTINA	**Data:** **20/05/2021** **QUINTA-FEIRA**	**Turma: 4ºA**
Componente Curricular: **ROTINA ADAPTADA** **Matemática/Língua Portuguesa**	**Entrega: foto via zap**	

HOJE É DIA DE BRINCAR COM A PARLENDA

O MACACO FOI À FEIRA

OUÇA O TEXTO ACESSANDO O LINK ABAIXO

https://youtu.be/-uxdj38c_OA

DEPOIS TENTE ESCREVER DO SEU JEITINHO

OS QUATRO PRIMEIROS VERSOS.

MOSTRE PARA SUA PROFESSORA

Secretaria de Educação
Avenida Prefeito Valdirio Prisco, 193
Jardim Itacolomy
sec@ribeiraopires.sp.gov.br
(11) 4828-9600/ 4825-9270

ATIVIDADE DE MATEMÁTICA

DONA DIVA ANOTOU O TOTAL DE FALTAS DE SEUS ALUNOS EM CADA DIA DA SEMANA PASSADA E CONSTRUIU O GRÁFICO ABAIXO.

FALTAS DOS ALUNOS

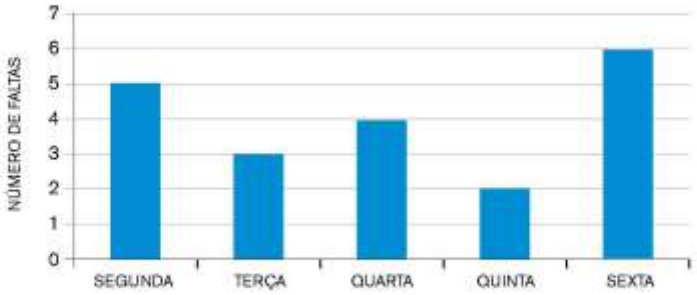

FONTE: PROFESSORA DIVA

DE ACORDO COM O GRÁFICO, RESPONDA:

A. QUAL FOI O DIA EM QUE HOUVE O MAIOR NÚMERO DE FALTAS? ESCREVA A RESPOSTA NO QUADRINHO ABAIXO.

B. QUANTOS ALUNOS FALTARAM NA TERÇA-FEIRA? ESCREVA A RESPOSTA NO QUADRINHO ABAIXO.

ESTÂNCIA TURÍSTICA DE RIBEIRÃO PIRES
CONSTRUINDO O FUTURO DA GENTE

Secretaria de Educação
Avenida Prefeito Valdirio Prisco, 193
Jardim Itacolomy
sec@ribeiraopires.sp.gov.br
(11) 4828-9600/ 4825-9270

ESCOLA MUNICIPAL COMENDADOR ABDALLA CHIEDDE		
Nome do aluno:		**SEMANA 10** **17 À 21/05/2021**
Professor: CRISTINA	**Data:** **21/05/2021** **SEXTA-FEIRA**	**Turma: 4ºA**
Componente Curricular: **ROTINA ADAPTADA** **Matemática/Língua Portuguesa**	**Entrega: foto via zap**	

ATIVIDADE DE LÍNGUA PORTUGUESA

NA SALA DE AULA ESTAMOS TRABALHANDO O TEMA SUBSTANTIVO, REGISTRE NO SEU CADERNO SUBSTANTIVOS QUE REPRESENTAM:

FRUTA	NOME	ANIMAL

Secretaria de Educação
Avenida Prefeito Valdirio Prisco, 193
Jardim Itacolomy
sec@ribeiraopires.sp.gov.br
(11) 4828-9600/ 4825-9270

ATIVIDADE DE MATEMÁTICA
CALENDÁRIO

MAIO - 2021						
DOMINGO	SEGUNDA FEIRA	TERÇA FEIRA	QUARTA FEIRA	QUINTA FEIRA	SEXTA FEIRA	SÁBADO
						1
2	3	4	5	6	7	8
9	1	11	12	13	14	15
16	17	18	19	20	21	22
23	24	25	26	27	28	29
30	31					

Secretaria de Educação
Avenida Prefeito Valdirio Prisco, 193
Jardim Itacolomy
sec@ribeiraopires.sp.gov.br
(11) 4828-9600/ 4825-9270

A. EM QUE DIA CAIRÁ O ÚLTIMO DIA DO MÊS DE MAIO DE 2021?

ESCREVA A RESPOSTA NO QUADRINHO ABAIXO.

B. EM QUE DIA FOI O SEGUNDO DOMINGO DO MÊS DE MAIO ?

ESCREVA A RESPOSTA NO QUADRINHO ABAIXO.

BOM TRABALHO