ESTÂNCIA TURÍSTICA DE RIBEIRÃO PIRES
CONSTRUINDO O FUTURO DA GENTE

Secretaria de Educação
Avenida Prefeito Valdirio Prisco, 193
Jardim Itacolomy
sec@ribeiraopires.sp.gov.br
(11) 4828-9600/ 4825-9270

ESCOLA MUNICIPAL PROFESSORA LAVÍNIA FIGUEIREDO ARNONI		
Nome do aluno:		**Semana 7**
Professor: DÉBORA ALVES /STELLA	Data: 22/04/2021	Turma: 2º ANOS
Componente Curricular: LÍNGUA PORTUGUESA	Entrega: 29/04 - POSTAGEM NA PLATAFORMA GOOGLE CLASS	

ATIVIDADES DE LÍNGUA PORTUGUESA

NOS DIAS 22 E 23/04 VAMOS EXPLORAR AS PÁGINAS 12 A 21 DO LIVRO "A JOANINHA QUE PERDEU AS PINTINHAS". O LIVRO NO FORMATO PDF ESTÁ DISPONÍVEL NO LINK ABAIXO.

https://drive.google.com/drive/folders/1WHDGOfH9fFTfoyQ0NiwMP6YLbHogX62M?usp=sharing

https://www.youtube.com/watch?v=l0vVq4hd_tE

1- ACHE NA IMAGEM AO LADO, A PALAVRA QUE COMEÇA COM A LETRA **G**.

2- VOCÊ CONHECE OUTRA PALAVRA QUE COMEÇA COM A LETRA G? ESCREVA ABAIXO.

3- SEPARE AS SÍLABAS E CONTE AS LETRAS DA PALAVRA QUE ESCOLHEU NA ATIVIDADE 2.

_____

QUANTIDADE DE LETRAS = _____

ESTÂNCIA TURÍSTICA DE RIBEIRÃO PIRES
CONSTRUINDO O FUTURO DA GENTE

Secretaria de Educação
Avenida Prefeito Valdirio Prisco, 193
Jardim Itacolomy
sec@ribeiraopires.sp.gov.br
(11) 4828-9600/ 4825-9270

ESCOLA MUNICIPAL PROFESSORA LAVÍNIA FIGUEIREDO ARNONI		
Nome do aluno:		**Semana 7**
Professor: DÉBORA ALVES /STELLA	Data: 22/04/2021	Turma: 2º ANOS
Componente Curricular: MATEMÁTICA	Entrega: 29/04 - POSTAGEM NA PLATAFORMA GOOGLE CLASS	

ATIVIDADES DE MATEMÁTICA

1- A JOANINHA PERDEU ALGUMAS PINTINHA, RESOLVA AS SUBTRAÇÕES PARA VER COM QUANTAS ELA FICOU. SIGA O EXEMPLO:


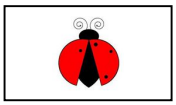


8 - 4 = 4



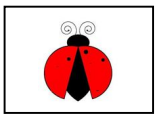

8 - 5 = ☐





8 - 7 = ☐