Prefeitura da Estância Turística de Ribeirão Pires

Secretaria de Educação
Av. Prefeito Valdírio Prisco, 193- Centro
sec@ribeiraopires.sp.gov.br
Telefone: (11) 4828-9600

Escola Municipal" Professora Lavínia de Figueiredo Arnoni"		
Nome do aluno: -	Data: **02/10**	Semana: **5ª**
Professores: **Rose, Madalena, Suelen**	Turma: **4ºs anos A, B e C.**	
Componentes Curriculares: Matemática	Entregar: **05/10**	

1- Observe o gráfico:

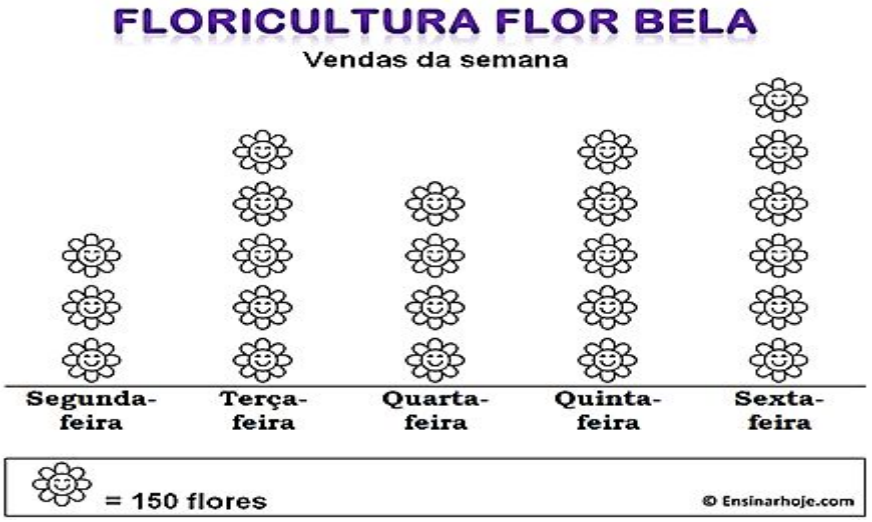

a) Qual o dia da semana foram vendidas mais flores? _____

b) Qual o dia da semana foram vendidas menos flores? _____

c) Quantas flores foram vendidas na semana? _____

2- Complete a tabela com as informações do gráfico acima:

Dias da semana	Quantidade de flores
	450
Terça feira	
Quarta feira	
Sexta feira	

Prefeitura da Estância Turística de Ribeirão Pires

Secretaria de Educação
Av. Prefeito Valdírio Prisco, 193- Centro
sec@ribeiraopires.sp.gov.br
Telefone: (11) 4828-9600

Escola Municipal" Professora Lavínia de Figueiredo Arnoni"		
Nome do aluno: -	Data: **02/10**	Semana: **5ª**
Professores: **Rose, Madalena, Suelen**	Turma: **4ºs anos A, B e C.**	
Componentes Curriculares: Ciências	Entregar: **05/10**	

Bom dia! Tudo bem com você?

Atividade Baseada no Filme Uma aventura no mundo das fadas



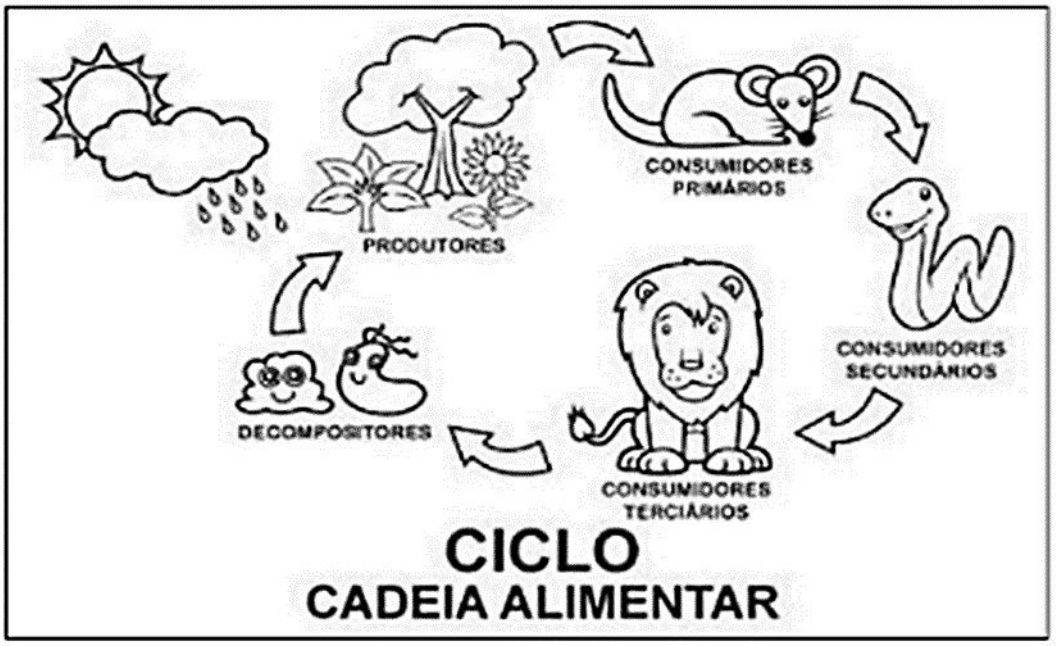

O que os seres vivos retiram do ambiente eles devolvem. Tem sido assim desde do início da existência da vida da terra, até os dias de hoje. Trata-se de um ciclo eterno.

A este ciclo damos o nome de CADEIA ALIMENTAR.

Na cadeia Alimentar, a energia vai sendo transferida de um ser vivo a outro. Para representar uma cadeira alimentar usamos setas.

Os componentes da cadeia alimentar são os seres:

- **Produtores** - são todos os seres que fabricam o seu próprio alimento, através da fotossíntese, sendo neste caso as plantas, sejam elas terrestres ou aquáticas.
- **Animais** - os animais obtém sua energia e alimentos comendo plantas ou outros animais, pois não realizam fotossíntese, sendo, portanto incapazes de fabricarem seu próprio alimento.
- **Decompositores** - apesar da sua importância, os decompositores nem sempre são muito fáceis de serem observados em um ecossistema, pois sendo a maioria formada por seres microscópicos, a constatação da sua presença não é uma tarefa tão fácil. As bactérias e os fungos são seres decompositores.

1- Qual parte do filme da Tinkerbell podemos ver um exemplo de cadeia alimentar?_____

_____

_____

2- Cite um exemplo de cadeia alimentar:

_____

_____

_____

3- Qual predador o ratinho foge durante a colheita?

_____

_____

_____

_____